Kümnendmurdude liitmine ja lahutamine

1. Perekond Kallaste korteri suurus on 48 m^2.

Magamistoa suurus on 12 m^2.

Elutuba on 16,7 m^2.

Köögi suurus on 10,5 m^2.

Magamistuba on ..... kui elutuba.

Kui palju on magamistuba väiksem kui elutuba?

Mitu m^2 on kahes toas kokku?

Kui suur on tubade ja köögi pind kokku?

Kui suur on koridor ja WC?

2. Helina ja Kaisa käisid koos söömas.

Mõlemad ostsid hamburgeri ja friikartulid.

Helina hamburger maksis 12 kr.

Helina ja Kaisa hamburgerid maksid kokku 26,50 kr.

Kui palju maksis Kaisa hamburgeri eest?

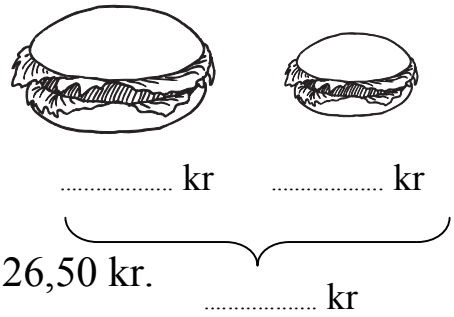

Friikartulid maksid 12,50 kr.

Kui palju raha kulus Kaisal?



..... kr

Kui palju raha kulus Helinal?

Kas nad said osta ka Sprite'i ja Fantat,
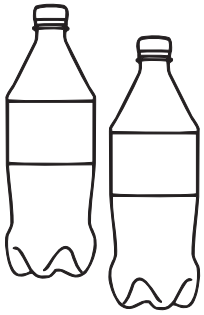
kui Helinal oli kaasas 50 kr ja Kaisal 32 kr?