Teisendamine

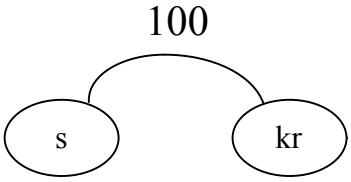

1 kroon = ... senti 1 s = ... kr

1. Avalda kroonides.

30 s = 0,3 kr	1 kr 20 s = ...	180 s = ...
10 s = ...	6 kr 35 s = ...	326 s = ...
9 s = ...	19 kr 80 s = ...	409 s = ...
7 s = ...	10 kr 5 s = ...	1035 s = ...
55 s = ...	26 kr 55 s = ...	500 s = ...
40 s = ...	14 kr 10 s = ...	115 s = ...
25 s = ...	2 kr 4 s = ...	2550 s = ...

2. Mihklil on poodi minnes kaasas 11 krooni.

Poiss tahab osta 2 vihikut ja pliiatsi.

Üks vihik maksab 3,75 kr ja pliiats 2,95 kr.

Kas tal jätkub ostuks raha?

Mitu senti tal jääb üle või puudu?



3. Emal oli rahakotis üks 50-kroonine ja üks 100-kroonine kupüür.
Ta ostis poest erinevaid toiduaineid,
mis maksid 5 kr 80 s, 23,45 kr ja 15,9 krooni.
Mitu krooni saab ta müüjalt tagasi, kui ta maksab 50-kroonisega?
Mitu krooni saab ta müüjalt tagasi, kui ta maksab 100-kroonisega?

4. Kaarel ostis esmaspäeval 15 liitrit bensiini hinnaga 14,35 kr liiter.
Reedel ostis ta sama koguse liitri hinnaga 13,80 krooni.
Mitu krooni kulus mehel esmaspäeval?
Mitu krooni kulus tal reedel?
Mitu krooni oleks Kaarel säästnud,
kui ta oleks kogu bensiini ostnud reedel?